9. Заокружи слово којим је означена иконица програма **Envisioneer Express**



А

Б

В

3

10. Повежи елементе прозора са њиховим оригиналним називом.

___ радна површина А Toolbar

___ линија алата Б Desktop

___ линија менија В Menu bar

3

11. Програм Microsoft Visio пружа могућност тродимензионалног (3Д) пројектовања

Тачно **Нетачно**

2

12. PVC фолија се производи од:

А алуминијума **Б** пластичне масе **В** текстила **Г** стакла

3

13. Соларни колектори претварају енергију сунчевог зрачења у:

А светлосну енергију **Б** топлотну енергију **В** електричну енергију

3

14. Испод сваке слике напиши назив приказане грађевинске машине.







_____ _____ _____

6

15. Аутопут има две међусобно одвојене _____ траке, за сваки смер вожње

3

16. Утврди који су од наведених исказа тачни (Т) односно нетачни (Н).
Заокружи одговарајуће слово после сваког исказа.

А Ранжирне станице не служе за безбедно провођење путника, пасошку и царинску контролу, ватрогасне јединице итд. Т Н

Б Железничку пругу чини један или више колосека по којима се крећу друмска возила. Т Н

Б Лучка капетанија регулише и надзире сигурност речног саобраћаја. Т Н

3

17. **ВИАДУКТ** је грађевински објекат који се користи у следећем саобраћајном систему:

А космичком **Б** ваздушном **В** воденом **Г** копненом

3

Комисија : _____ _____ _____